2009학년도 5월 고2 경기도학업성취도평가 문제지

사회탐구 영역(사회 · 문화)

제 4 교시 | 성명 | | 수험번호 | | | | | | 2 | | | | | 1

- 먼저 수험생이 선택한 과목의 문제지인지 확인하시오.
- 자신이 선택한 과목의 순서대로 문제를 풀어야 합니다.
- 문제지에 성명과 수험 번호를 정확히 기입하시오.
- 답안지에 성명, 수험 번호, 선택 과목, 답을 표기할 때에는 반드시 '수험생이 지켜야 할 일'에 따라 표기하시오.
- 문항에 따라 배점이 다르니, 각 물음의 끝에 표시된 배점을 참고하시오. 3점 문항에만 점수가 표시되어 있습니다. 점수 표시가 없는 문항은 모두 2점씩입니다.

1. 다음은 ○○고등학교 학생회장 후보 선거 홍보물이다. ㉠~㉣에 대한 옳은 설명만을 <보기>에서 있는 대로 고른 것은?

학생회장 후보
기호 1번 ◇◇◇
1. ㉠교내 동아리 다양화
2. 도서관 휴일 개방
3. ㉡학생회 홈페이지 개설
○○고등학교 학생자치부

㉢학생회장 후보
기호 2번 □□□
1. ㉣학생 휴게실 설치
2. 매점 탁자 증설
3. 학습동아리 비품 지원
○○고등학교 학생자치부

〈 보 기 〉
ㄱ. ㉠은 개인의 선택의지를 바탕으로 결성되었다.
ㄴ. ㉡은 구성원의 지위와 책임이 명확하게 규정되어 있다.
ㄷ. ㉢의 역할은 사람에 따라 다르게 나타난다.
ㄹ. ㉣과 같은 성격의 지위에는 맏아들, 며느리 등이 있다.

① ㄱ, ㄴ ② ㄱ, ㄷ ③ ㄴ, ㄹ
④ ㄱ, ㄴ, ㄷ ⑤ ㄱ, ㄷ, ㄹ

2. 다음은 어느 연구 보고서 요약본의 일부이다. Ⅰ~Ⅳ단계에 대한 평가로 옳지 않은 것은?

연구 단계	내 용
Ⅰ. 문제 제기	사회계층과 사교육비 지출은 어떤 관계가 있을까?
Ⅱ. 가설 설정	부모의 경제적 지위가 높을수록 사교육에 의존하는 비율이 높을 것이다.
Ⅲ. 연구 설계	양적 연구 방법으로 계획
Ⅳ. 자료 수집 및 분석	·부모의 소득 수준 조사 ·사교육을 받는 비율 조사 ·사교육비 지출 규모 조사

① Ⅰ단계에서는 연구자의 주관이 개입되었다.
② Ⅱ단계에서 독립 변인은 '사교육에 의존하는 비율'이다.
③ Ⅲ단계에서의 연구 방법은 연구 주제에 적합하다.
④ Ⅳ단계에서는 검증 가능한 자료를 수집 분석하였다.
⑤ Ⅰ~Ⅳ 단계를 볼 때 연역적인 연구방법을 사용하였다.

3. 다음을 통해 알 수 있는 계층이론에 대한 설명으로 적절한 것은? [3점]

산업혁명 이후 새로 등장한 화이트칼라나 전문직 종사자들은 육체노동자들과 마찬가지로 고용주와 임금 계약을 맺었다. 그러나 그들은 계약에 의한 임금노동자임에도 불구하고 많은 소득을 통해 경제적 수준이 높았고, 작업조건에 대해서도 상당한 통제력을 가지고 있었을 뿐 아니라 사회적 지위 역시 높았다.

① 생산 수단의 소유 여부에 의해 구분된다.
② 현대 사회의 분배 구조를 설명하기 어렵다.
③ 불평등한 사회 구조의 변화를 강조한 것이다.
④ 소속 구성원들 사이에는 공통된 집단의식을 가진다.
⑤ 다양한 요인에 의한 불평등한 현상을 범주화한 것이다.

4. 다음 사회화 기관 (가)~(다)에 대한 설명으로 가장 적절한 것은?

(가) 신문, 잡지 등과 같이 사람들에게 사회의 전반적인 정보를 전달하는 기관
(나) 같은 지역이나 공동체 속에서 생활하는 비슷한 나이의 어린이들이 주로 놀이를 중심으로 형성하는 집단
(다) 보호자가 근로, 질병, 기타의 사유로 6세 미만 어린이를 돌볼 수 없을 때 위탁을 받아 보육하는 시설

① (가)는 언어 습득과 원초적 사회화에 큰 영향을 미친다.
② (나)와 성격이 같은 사회화 기관에는 학교가 있다.
③ (다)를 통해 인간의 사회화가 시작된다.
④ (가)와 (다)는 인위적으로 형성된 사회화 기관이다.
⑤ (나)와 (다)는 사회화를 주목적으로 조직되었다.

5. 다음 (가), (나)에 해당하는 사례를 <보기>에서 골라 바르게 짝지은 것은? [3점]

(가) 어떤 현상에 대하여 인간의 주관적인 평가가 개입되어 있지 않고, 경험적인 근거에 의해 증명 가능한 내용을 진술한 것
(나) 어떤 현상에 대하여 인간의 주관적인 평가가 개입되어 바람직한 방향을 제시하는 것으로 경험적으로 증명이 불가능한 내용을 진술한 것

〈 보 기 〉
ㄱ. 남성의 공간 지각 능력은 여성의 그것보다 높다.
ㄴ. 조세 부담률을 높여야 공정한 분배를 이룰 수 있다.
ㄷ. 자연을 보호하는 것보다 개발하는 것이 더 중요하다.
ㄹ. 유아용 안전장구의 의무 도입은 유아 교통사고 사망률을 낮춘다.

	(가)	(나)		(가)	(나)
①	ㄱ, ㄷ	ㄴ, ㄹ	②	ㄱ, ㄹ	ㄴ, ㄷ
③	ㄴ, ㄷ	ㄱ, ㄹ	④	ㄴ, ㄹ	ㄱ, ㄷ
⑤	ㄷ, ㄹ	ㄱ, ㄴ			

6. 다음은 학생이 제출한 형성 평가지이다. (가)~(라)에 해당하는 자료 수집 방법을 <보기>에서 바르게 짝지은 것은? [3점]

○반 ○번	성명 : ○○○	점수 : 4점

※ 문제를 읽고 해당하는 자료수집 방법에 모두 '√' 하시오. (맞으면 각1점, 틀리면 0점)

특징 \ 자료 수집 방법	(가)	(나)	(다)	(라)
문1) 인과 관계를 밝히기 용이함			√	
문2) 해석적 연구방법에서 주로 사용	√			√
문3) 짧은 시간과 비용으로 체계적 연구 가능		√		
~~문4)~~ 자세한 질문을 통해 솔직한 답변 수집 가능				√
문5) 예상치 못한 상황 발생 시 대처 곤란				√

〈 보 기 〉

ㄱ. (가)-면접법 ㄴ. (나)-문헌연구법
ㄷ. (다)-참여관찰법 ㄹ. (라)-실험연구법

① ㄱ, ㄴ ② ㄱ, ㄷ ③ ㄴ, ㄷ
④ ㄴ, ㄹ ⑤ ㄷ, ㄹ

7. 다음 (가)에 들어갈 내용으로 옳은 것만을 <보기>에서 있는 대로 고른 것은? [3점]

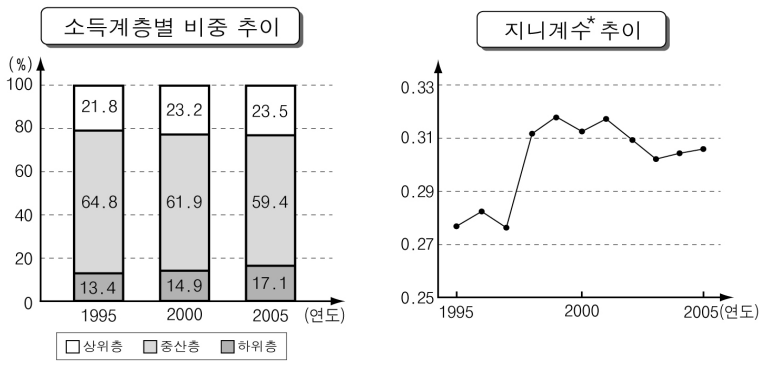

교사 : 위 자료는 10년 동안의 소득에 따른 계층의 변화와 지니계수의 변화를 나타낸 것입니다. 자료를 통해 알 수 있는 것은 무엇일까요?

학생 : 1995년에 비해 2005년에는 _____(가)_____

*지니계수 : 소득 분배를 알아보는 지수로서 값이 클수록 불평등, 작을수록 평등을 의미함.

〈 보 기 〉

ㄱ. 소득 불평등 정도가 심화됐어요.
ㄴ. 중산층의 상대적 박탈감이 가장 커졌어요.
ㄷ. 다이아몬드형 계층 구조가 약화됐어요.
ㄹ. 개방적 계층구조에서 폐쇄적 계층구조로 변화했어요.

① ㄱ, ㄴ ② ㄱ, ㄷ ③ ㄴ, ㄹ
④ ㄱ, ㄴ, ㄷ ⑤ ㄱ, ㄷ, ㄹ

8. 다음 (가), (나)에 나타난 사회 조사 과정에서의 문제점으로 가장 타당한 것은?

(가) ○○방송에서는 서울 중심가에서 투표권이 있는 만 19세 이상의 행인(行人) 2,000명을 대상으로 대통령 후보 지지도에 대한 설문 조사를 실시한 결과 A당 갑 후보 51%, B당 을 후보 33%, 무응답 16%로 집계되었으며 신뢰도 95%에 오차는 ±3.5%이라고 발표하였다.

(나) 온천의 효과를 알아보기 위해서 △△신문사는 □□지역 온천 방문객 1,500명을 대상으로 설문 조사를 실시한 결과 온천의 효과가 있다 86%, 효과가 없다 7%, 모르겠다 7%로 집계되어 온천의 효과가 있는 것으로 발표하였다.

① 측정 오차를 무시하였다.
② 윤리적인 문제가 발생하였다.
③ 표본이 모집단을 대표하기 어렵다.
④ 개념의 조작적 정의를 사용하지 않았다.
⑤ 연구 주제에 맞지 않는 자료 수집 방법을 사용하였다.

9. 다음에서 알 수 있는 사회문화 현상을 보는 관점에 대한 설명으로 옳은 것은? [3점]

인간은 우리가 보통 생각하듯이 객관적인 세계에 살고 있는 것이 아니라 언어를 매개로 살고 있다. 실재 세계라고 하는 것은 언어 관습의 기초 위에 세워져 있다. 그러므로 언어는 단순히 표현의 수단만이 아니다. 우리는 언어를 통하여 세계를 보고, 느끼고, 경험함으로써 세상을 이해하게 된다.

① 사회 구성원에게 영향을 미치는 구조의 힘을 강조한다.
② 사회적 관계 속에서 발생하는 행위의 의미 해석을 중시한다.
③ 사회 체계가 불안정하여 구조적 변화가 불가피하다고 본다.
④ 사회 제도는 서로 긴밀하게 연관되어 상호 작용한다고 본다.
⑤ 공통된 가치관에 의해 사회 구성원의 역할이 분담된다고 본다.

10. 다음에 나타난 개인과 사회를 보는 일본인의 관점과 부합하는 진술을 <보기>에서 고른 것은?

미국의 수도인 워싱턴에는 일본 전체 변호사의 2배가 넘는 변호사들이 활동하고 있다. 그 이유는 미국인들이 자신의 이익을 중시하는데 반해 일본인들은 공동체를 중요시하기 때문이다. 예를 들어 야구 경기를 관람하던 미국인이 야구공에 맞으면 그 사람은 당장 구단과 선수를 상대로 소송을 제기한다. 그러나 만약 공에 맞은 사람이 일본인이었다면 그는 그것을 자신의 탓으로 돌리고, 자기가 공을 맞았던 위치에 서있던 것이 잘못이라고 여기며 경기 진행에 방해가 된 것을 오히려 미안해한다.

〈 보 기 〉

ㄱ. 사원의 경쟁력이 회사의 경쟁력을 좌우한다.
ㄴ. 학교의 학습 분위기는 학교의 전통에 따라 달라진다.
ㄷ. 개인기가 강한 팀이 조직력이 강한 팀을 이길 수 없다.
ㄹ. 민주 사회는 수많은 사람들의 피와 땀으로 얻어진 산물이다.

① ㄱ, ㄴ ② ㄱ, ㄹ ③ ㄴ, ㄷ
④ ㄴ, ㄹ ⑤ ㄷ, ㄹ

11. 그래프는 조직의 성장 단계별 규모와 업무성과의 관계를 나타낸 것이다. Ⅲ단계에서 조직이 취해야 할 적절한 조치를 <보기>에서 고른 것은?

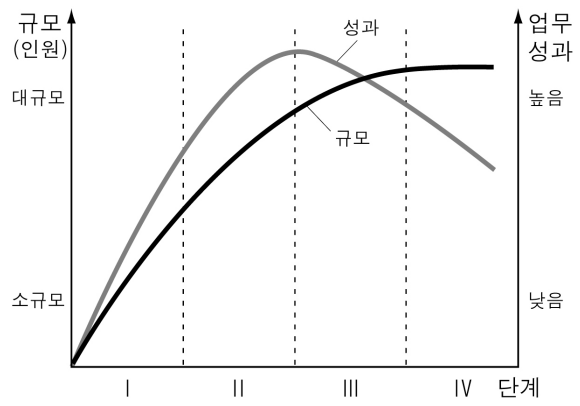

〈 보 기 〉

ㄱ. 연공서열(年功序列)을 중시한다.
ㄴ. 구성원들에게 재량권을 확대 부여한다.
ㄷ. 팀제나 사업부제 등과 같은 조직으로 개편한다.
ㄹ. 구성원들의 신분을 철저히 보장하여 안정성을 높인다.

① ㄱ, ㄴ ② ㄱ, ㄷ ③ ㄴ, ㄷ
④ ㄴ, ㄹ ⑤ ㄷ, ㄹ

12. 다음 실험을 통해 공통적으로 알 수 있는 사회학적 개념으로 옳은 것은?

○ 미국 대학에서 백인 학생들과 흑인 학생들을 대상으로 강도 사건의 피의자를 인종을 달리하여 보여주었다. 그 결과 모든 단서가 동일했음에도 불구하고 학생들은 자신의 인종이 범인이 아니라고 응답한 비율이 매우 높았다.
○ 한국 사람들에게 흑인의 사진을 보여주고 구별하라고 하면 흑인들은 하나같이 비슷한 얼굴을 하고 있어서 구별하기 힘들다고 하였다. 하지만 한국인의 얼굴은 세세하게 기억하는 것으로 나타났다.

① 내집단과 외집단 ② 1차 집단과 2차 집단
③ 공동 사회와 이익 사회 ④ 공식 조직과 비공식 조직
⑤ 자발적 집단과 비자발적 집단

13. ㉠~㉢에 대한 설명으로 옳지 <u>않은</u> 것은?

김대리 : 박과장님! 주말에 시간되면 테니스 대회에 함께 나가시죠?
박과장 : 어디서 주최하는 대회인데요?
김대리 : ㉠<u>○○회사</u>에서 직장인들을 대상으로 주최하는 대회죠.
박과장 : 그럼 우리 회사 ㉡<u>동호회</u>가 나가야죠. 작년 여름 휴가 때 ㉢<u>전국△△테니스인연합회</u>에서 주최하는 대회에서도 입상을 했으니, 이번에는 더 좋은 결과가 있지 않을까요?

① ㉠은 정해진 절차와 규칙에 따라 업무를 수행한다.
② ㉡의 활동을 통해 ㉠과 같은 조직의 효율성을 높일 수 있다.
③ ㉢은 공식 조직이면서 자발적 결사체에 해당한다.
④ ㉠, ㉡은 구성원들 간의 역할이 전문화·분업화되어 있다.
⑤ ㉡, ㉢은 구성원들의 이해관계와 관심의 다양화로 결성되었다.

14. ㉠~㉢현상에 대한 옳은 설명만을 <보기>에서 있는 대로 고른 것은? [3점]

제○○호 **○ ○ 신 문** 2009년 ○○월 ○○일

환경올림픽이라고 불리는 람사르 당사국 총회가 성황리에 끝났다. 삼면이 바다로 둘러싸인 우리나라는 ㉠<u>습지가 형성</u>되기에 유리한 조건을 가지고 있으나 최근까지도 습지를 버려진 땅으로 인식하는 경우가 많았다. 람사르 총회는 동식물의 서식처뿐만 아니라 지구 온난화의 주범인 이산화탄소의 양을 조절하거나 홍수를 예방하는 등의 역할을 하는 ㉡<u>습지의 가치를 재발견하고 보호</u>하는 계기로서 작용할 것으로 기대된다. 특히 ㉢<u>이번 총회에서는 한국과 일본이 공동으로 제출한 '논 습지 결의안'이 통과</u>되어 습지로서의 논의 역할을 재조명하는 기회가 되었다.

〈 보 기 〉

ㄱ. ㉠은 인과관계가 불명확하다.
ㄴ. ㉡에는 보편성과 특수성이 함께 나타난다.
ㄷ. ㉢은 개연성과 확률성의 원리가 적용된다.
ㄹ. ㉡은 ㉠에 비해 당위 법칙이 강하게 지배한다.

① ㄱ, ㄴ ② ㄱ, ㄷ ③ ㄴ, ㄹ
④ ㄱ, ㄷ, ㄹ ⑤ ㄴ, ㄷ, ㄹ

15. 그림의 갑이 사회 문화 현상을 보는 관점과 맥락을 같이하는 진술로 적절한 것은? [3점]

① 가난한 아들도 얼마든지 부자 아빠가 될 수 있다.
② 성차별이 생겨난 것은 사회의 조화로운 생존과 관련이 있다.
③ 직장에서 숙련도와 기여도에 따라 보상을 차등화 하는 것은 당연하다.
④ 일탈자는 공격적인 기질을 가지고 있으며 범죄성이 높은 유전 인자를 지니고 있다.
⑤ 청년 실업 문제를 해결하기 위해서는 사회 체제 전반의 구조적 변혁이 필요하다.

16. 다음은 수업 시간에 교사가 판서한 내용이다. (가)에 들어갈 옳은 내용만을 <보기>에서 있는 대로 고른 것은? [3점]

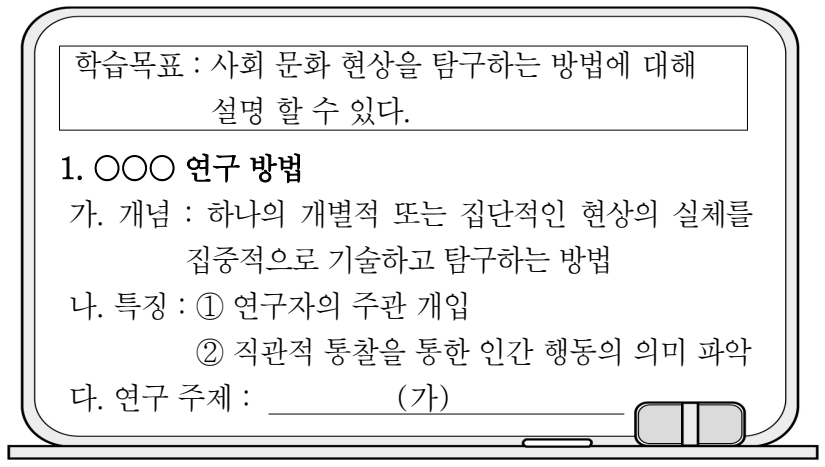

〈 보 기 〉

ㄱ. 아시아 각국의 혼인문화에 대한 비교 연구
ㄴ. 소득 계층에 따른 정당 선호도에 관한 연구
ㄷ. 소집단 내 비언어적 상호작용의 유형에 관한 연구
ㄹ. 기업 파산을 초래한 도덕적 해이에 관한 사례 연구

① ㄱ, ㄴ ② ㄱ, ㄷ ③ ㄴ, ㄹ
④ ㄱ, ㄷ, ㄹ ⑤ ㄴ, ㄷ, ㄹ

17. 다음 사례가 시사하는 사회 문화 현상의 탐구 태도로 가장 적절한 것은?

갑은 완두를 밭에 파종하고 '자라라, 자가교배 하여라'라고 완두에게 명령했다. 그러자 그렇게 되었다. 그는 완두를 둥근 콩과 주름진 콩으로 나누고, 둥근 것을 우성이라고 주름진 것을 열성이라고 명명했다. 세어보니 둥근 것이 450개, 주름진 것이 202개였다. 그가 만든 법칙에 의하면 둥근 콩과 주름진 콩의 비율은 3:1이어야 했다. 갑은 분노하여 소리쳤다. '나에게서 사라져라. 훼방꾼인 완두여...' 그랬더니 정확히 300개의 둥근 콩과 100개의 주름진 콩만 남았다. 그렇게 갑의 유전 법칙은 탄생했다.

① 연구 과정에 대한 비판을 허용해야 한다.
② 연구 결과가 사회에 미칠 영향을 고려해야 한다.
③ 자료수집 과정에서 자신의 의도를 배제해야 한다.
④ 인류가 추구하는 보편적 가치를 고려해야 한다.
⑤ 연구 과정의 특수성을 인정하여 상대적으로 탐구해야 한다.

18. 다음에서 알 수 있는 사회 구조의 특징으로 가장 적절한 것은?

○○은 여자로는 드물게 삭발을 하고 다닌다. 사람들은 대중목욕탕이나 공중 화장실에서 삭발한 그녀를 남자로 오인하여 쫓아내기도 하고 성(性) 정체성을 의심하는 등 그녀의 행동을 이상하게 생각했다. 왜냐하면 삭발과 같은 짧은 머리는 남성에게 기대되는 두발의 형태라고 생각하기 때문이다.

① 사회적 관계에 따라 달라진다.
② 역사적으로 전승되고 축적된다.
③ 구성원들의 가치관에 따라 변화한다.
④ 구성원들에게 구조화된 행동을 요구한다.
⑤ 사회 구성원들이 바뀌어도 크게 변화하지 않는다.

19. 다음을 통해 알 수 있는 일탈 이론에 대한 설명으로 옳은 것은? [3점]

최근 아무 이유 없이 길거리에 있는 자동차에 방화하거나, 지나가는 행인에게 해를 끼치는 일명 '묻지마 범죄'가 증가하고 있다. 이러한 범죄를 행하는 사람들은 대부분 오랜 기간 극심한 생활고에 시달렸다는 특징이 있다. 범죄 심리학 전문가는 "사람들은 누구나 사회적 희소가치를 추구하지만 그것을 획득할 수 있는 기회가 결여되어 있을 때 이러한 일탈행위를 하게 된다."라고 일탈의 원인을 진단했다.

① 일탈 행위가 지배 집단에 의해서 결정된다고 본다.
② 다른 일탈자와 상호 작용을 통해 일탈 행위를 학습한다고 주장한다.
③ 사회 구성원들이 특정 행위를 일탈로 규정하기 때문에 일탈 행위가 된다고 본다.
④ 한 번 일탈 행위를 하게 되면 지속적으로 일탈 행위를 반복하게 된다고 주장한다.
⑤ 사회적으로 규정된 목표와 수단 사이의 괴리에서 일탈 행위가 발생한다고 본다.

20. 표에 대한 옳은 분석만을 <보기>에서 있는 대로 고른 것은? [3점]

<성별에 따른 취업자 수와 전문·관리직 종사자 비율의 변화 추세>

(단위 : 천 명, %)

취업자 / 년도	여성		남성	
	취업자	전문·관리직 종사자 비율*	취업자	전문·관리직 종사자 비율
1980	5,222	3.6	8,462	6.5
1990	7,376	7.7	10,709	9.4
2000	8,769	14.0	12,387	21.9
2005	9,526	17.5	13,330	23.3
2007	9,826	19.3	13,607	24.2

* 전문·관리직 종사자 비율= 전문·관리직 종사자 수/취업자 수

〈 보 기 〉

ㄱ. 전문·관리직이외의 취업자 비율은 지속적으로 감소하였다.
ㄴ. 1980년의 취업자 중 전문·관리직 종사자 비율은 10.1%이다.
ㄷ. 2000년 이후 여성의 전문·관리직 증가율은 남성보다 높다.
ㄹ. 2000년에 비해 2007년도에는 여성 전문·관리직 인원이 5.3% 증가했다.

① ㄱ, ㄴ ② ㄱ, ㄷ ③ ㄴ, ㄹ
④ ㄱ, ㄴ, ㄷ ⑤ ㄱ, ㄷ, ㄹ

※ 확인사항

○ 문제지와 답안지의 해당란을 정확히 기입(표기)했는지 확인하시오.